Comprendo

Lectura de fracciones

Las fracciones se leen de acuerdo con su denominador, así:

$\frac{1}{2}$ → un medio	$\frac{1}{5}$ → un quinto	$\frac{1}{8}$ → un octavo
$\frac{1}{3}$ → un tercio	$\frac{1}{6}$ → un sexto	$\frac{1}{9}$ → un noveno
$\frac{1}{4}$ → un cuarto	$\frac{1}{7}$ → un séptimo	$\frac{1}{10}$ → un décimo

Si el denominador es mayor que 10, se lee el numerador y, luego, el denominador seguido de la terminación **avos**. Las fracciones cuyo denominador es 100, 1.000... se leen con la terminación **ésimos**.

Ejemplo

Escribir cómo se lee cada fracción.

★ $\frac{5}{7}$

La fracción $\frac{5}{7}$ se lee cinco séptimos.

★ $\frac{7}{10}$

La fracción $\frac{7}{10}$ se lee siete décimos.

★ $\frac{8}{15}$

La fracción $\frac{8}{15}$ se lee ocho quinceavos.

★ $\frac{3}{1.000}$

La fracción $\frac{3}{1.000}$ se lee tres milésimos.

Practico

+4 actividades en tu LIBRO WEB



1 **Escribe** cómo se lee cada una de las siguientes fracciones.

a. $\frac{15}{4}$: Quince cuartos.

b. $\frac{2}{9}$: Dos novenos.

c. $\frac{11}{24}$: Once veinticuatroavos.

d. $\frac{35}{100}$: Treinta y cinco centésimos.

2 **Colorea** la parte en cada torta de acuerdo con la fracción indicada.

Cinco octavos

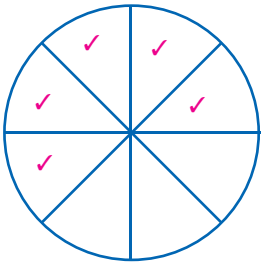

Tres octavos

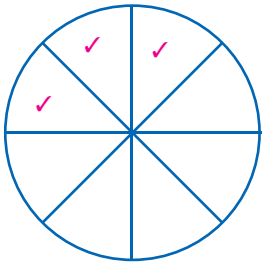
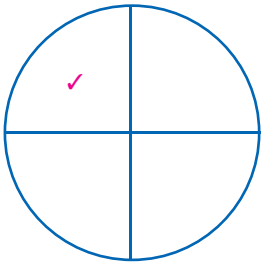
Un cuarto